Aufgabe 1:

Berechnen Sie sämtliche Spannungen an den Widerständen und die Ströme die durch sie hindurch fließen, wenn zwischen den Punkten A und B eine Spannung von 10V anliegt.

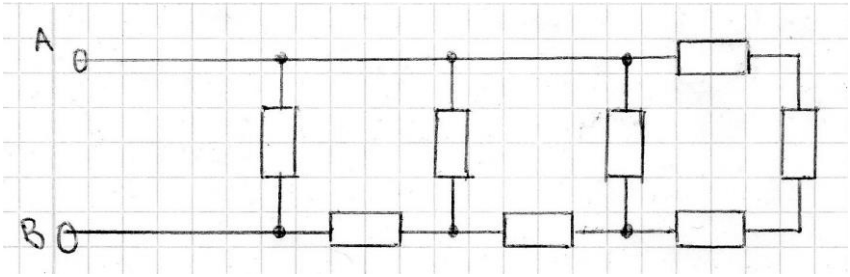

Aufgabe 2:

Berechnen Sie Ur und Iges, wenn Uq eine Spannung von 10V liefert.

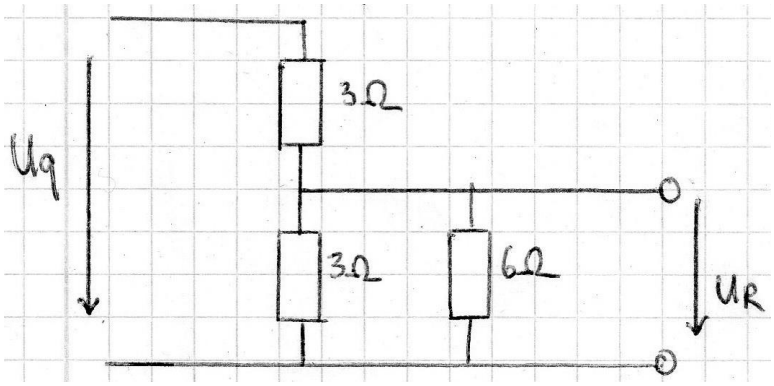

Aufgabe 3:

a) Berechnen Sie den Widerstand zu den Klemmen A und B.
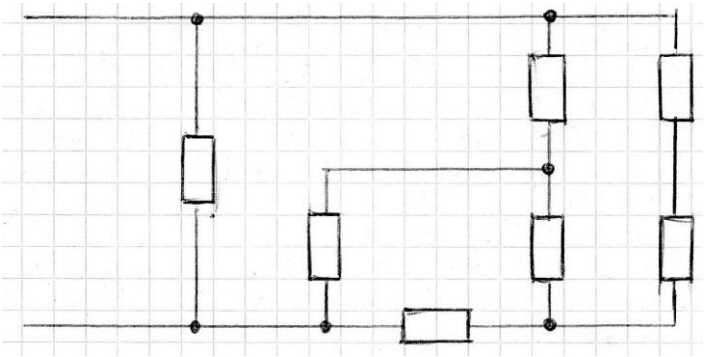
b) Berechnen Sie sämtliche Spannungen und Ströme an den Widerständen.